COLÉGIO BOM JESUS ENSINO DE 1º E 2º GRAUS

Curitiba, 19 de novembro de 1979.

Aluno: José Roberto Cordeiro 4ª série Turma: 6º

Nota: 8 +1 Professora: Rachel

TESTE DE COMUNICAÇÃO E EXPRESSÃO



1.- Leitura e Interpretação:

O Vento e o Sol

Esopo

O Vento e o sol estavam disputando qual dos dois era o mais forte. De repente, viram um viajante que vinha caminhando.

· Sei como decidir nosso caso. Aquele que conseguir fazer o viajante tirar o casaco, será o mais forte. Você começa, propôs o sol, retirando-se para trás da nuvem.

O vento começou a soprar com toda a força. Quanto mais soprava, o homem ajustava o casaco ao corpo.

Desesperado, então, o vento retirou-se.

O sol saiu de seu esconderijo e brilhou com todo seu esplendor sobre o homem, que logo sentiu calor e despiu o paletó.

"O amor constrói, a violência arruína".

2.- Estudo de Idéias:

a)- Dê o que se pede:

— O que disse o sol ao vento? O sol disse você começa, propôs o sol retirando-se para trás da nuvem

+- O que fez o vento para tirar o casaco do viajante? O vento quanto mais soprava o homem ajustava o casaco ao corpo

b)- Coloque (X) no que for certo:

( ) O vento arrancou o casaco do homem. + (X) O sol foi mais poderoso que o vento.

+ (X) O amor constrói, a violência arruína. + (+) Esopo foi o criador desta fábula.

c)- Copie o trecho onde o sol mostrou que era mais forte: O sol saiu de seu esconderijo e brilhou com todo seu esplendor sobre o homem que logo sentiu calor e despiu o paletó

+

3.- Automatização Gramatical:

a)- Empregue convenientemente a crase:

+ - Maria estava a trabalhar.

+ - Irei à horta colher as verduras.

+ - Irei a Bauru.

— - Vou a cidade a pé.

— - Eu dei um presente à mamãe.

— - Vou à cavalo.

+ - Vou àquela feira.

b)- Complete com preposições:

- Café com pão. + Loja com tijolos. + Ouro em pó. +
- Automóveis para vender. + Menino sem educação. +

c)- Sublinhe as conjunções das orações abaixo:

- Ele não é alto nem elegante. + - Antônio come muito, porém é magro. +
- Você quer ser aprovada, então deve estudar. + Ana é magra e Ester é gorda. +

d)- Complete as orações abaixo com uma interjeição adequada.

- Ui! ! Que dor! + Nossa !que chuva forte! +
- Olá ! De onde falam? + psiu !Não faça barulho +

e)- Ligue as sentenças com uma conjunção:

- Eu estudei mas aprendi. —
- Paulo é tão bonito porém sua irmã. —
- Ela viajou e sua irmã não gostou. +
- Não fui à escola e ao jardim. + —

f)- Numere a 2ª coluna de acordo com a 1ª:

(1) Eu sou bela	+ (4) futuro do presente
(2) Nós estávamos na praia	+ (1) presente do indicativo
(3) Ele teve que correr	+ (3) pretérito perfeito do indicativo
(4) Eles haverão de pagar	+ (5) futuro do ~~presente~~ PRETÉRITO
(5) Tu estarias satisfeita	+ (2) pretérito imperfeito do indicativo

g)- Assinale com um traço as interjeições:

- Psiu! Seu irmão está dormindo. +
- Viva! É mesmo um carrão. +
- Coragem! As férias já estão aí. +
- Ai! Parece que vou me resfriar. +

h)- Analise as orações:

- Silvia encontrou uma rosa.

Sujeito: Silvia + Núcleo do sujeito: Silvia + Predicado encontrou uma rosa + Núcleo do Predicado: encontrou + Objeto direto: Silvia — uma rosa
~~Objeto indireto: uma rosa~~ —

- Jane ofereceu um lindo presente para a vovó.

Sujeito: Jane + Núcleo do sujeito Jane + Predicado ofereceu um lindo presente para a vovó + Núcleo do Predicado ofereceu + Objeto direto Jane um lindo presente. Objeto indireto - para a vovó.

- A criança obedece aos pais.

Sujeito: A criança + Núcleo do sujeito Criança + Predicado obedece aos pais Núcleo do Predicado obedece + ~~Objeto direto~~ ~~a criança~~ Objeto indireto - aos pais.

i)- Use h, se necessário:

h onesto + | h omem + | h aveia — | animal
onda (mar) | esporte | h umilde + | h ino +

j)- Agora pare e pense bastante no livro que você leu e escreva o conto que mais gostou. Cuidado, não esqueça a pontuação, o nome do livro e o autor do conto!

Livro Contos da América Latina Nome: O galo pelado
Autor Elidia Wong de Dolande

Era uma vez um galo pelado que morava no vale da lua onde a lua brilhava dia e noite.

O nome desse galo devia ser galo depenado mas todo mundo o chamava Galo Pelado.

Nenhum garnso, pato e marreco que não levasse uma bicada do Galo Pelado e esse galo gostava de brigar com os outros galos. Quando os outros galos apanharam do galo pelado os outros o chamaram Galo Pelado! Galo Pelado! Galo Pelado!

E o galo não sabia como recuperar as suas penas e ele muito triste foi caminhando, caminhando até a dona Tartaruga quando ele chegou lá perguntou para a dona Tartaruga como ele podia recuperar as suas penas e ela disse: você deve ir a dona Rosa-dos-Ventos.

Lá foi ele conversar com a Rosa-dos-ventos e a Dona Rosa-dos-Ventos disse: você deve parar

l)- Ditado:

Receberás com esta uma pequena lata de doce de caju, em calda.

"Nós brasileiros devemos erguer uma estátua a este veículo da roça"

Veste uma calça de brim azul, camisa branca desfraldada ao vento sapatos de borracha e gorro vermelho com longo raleicho.

Que ele desafiasse a morte a todo momento, o problema era dele.

Para evitar a poluição portanto, é necessário limpar as águas sujas, instalar filtros nas chaminés, eliminar os gases e a fumaça do cano de descarga dos automóveis

de brigar com os outros animais porque se não você não consegue recuperar as suas penas e ele disse está bem.

E o Galo Pelado parou de brigar e conseguiu as suas penas.

?

COLÉGIO BOM JESUS - ENSINO DE 1º E 2º GRAUS.

Curitiba, 21 de novembro de 1979.

Aluno: José Roberto Cordeiro 4ª série Turma 6º

Nota: 6,6 Professora: Rachel

TESTE DE INTEGRAÇÃO SOCIAL

1.- Escreva V se for verdadeiro e F se for falso:

+ (F) A questão Religiosa não influiu na proclamação da República.

+ (V) A família imperial foi exilada para a Europa.

— (V) A República foi proclamada em São Paulo.

+ (V) A abolição da escravidão contribuiu para a proclamação da República.

( )

2.- Reponda com bastante atenção:

a)- Por que foram buscar negros na África?

— R:- Porque foram buscados e levados nos navios dentro dos porões e quando chegaram lá eram levados para um leilão onde os fazendeiros os compravam

b) Qual a lei que libertou todos os escravos do Brasil e quem assinou?

+ R:- Foi a Lei Áurea que libertou todos os escravos e foi assinado pela princesa Isabel

c)- Qual foi o presidente da República Nova?

+ R:- O presidente da República Nova foi Getúlio Vargas

d)- Quem proclamou a República e em que dia?

+ R:- Foi o General Marechal Deodoro da Fonseca no dia ~~[illegible]~~ 15 de novembro

e)- Qual a cidade mais importante da região Centro-Oeste?

+ R:- A cidade mais importante da região Centro-Oeste é Brasília

3.- Relacione:

(1) General Emílio Garrastazu Médici

(2) Marechal Arthur da Costa e Silva

(3) Dr. Juscelino K. de Oliviera

(4) General Ernesto Geisel

(5) Marechal Humberto de Alencar Castelo Branco

+ (3) Construção de Brasília

+ (4) Início da construção da maior hidrelétrica do mundo: Itaipu.

— (2) Reforma monetária e criação do cruzeiro novo.

+ (1) Construção da Transamazônica-

— (5) Implantação do Sistema de microondas: Embratel.

4.- Complete:

a)- O nome do atual presidente da República O presidente é João Batista Figueiredo

b)- A Região Norte é mais menos populosa e a mais extenso.

c)- A 19 de novembro de 1889 foi instituída a Bandeira

d)- Os tipos humanos da Região Centro-Oeste são: castanheiro, garimpeiro, seringueiro, boiadeiro.

e)- A 1º lei a favor dos escravos foi a de Eusébio de Queirós

5.- Numere a 2º coluna de acordo com a 1º

(1) Acre	(3) Manaus
(2) Mato Grosso	(4) Brasília
(3) Amazonas	(5) Belém
(4) Distrito Federal	(6) Goiânia
(5) Pará	(1) Rio Branco
(6) Goiás	(2) Cuiabá

6.- Localiza no mapa os Territórios e suas Capitais da Região Norte.

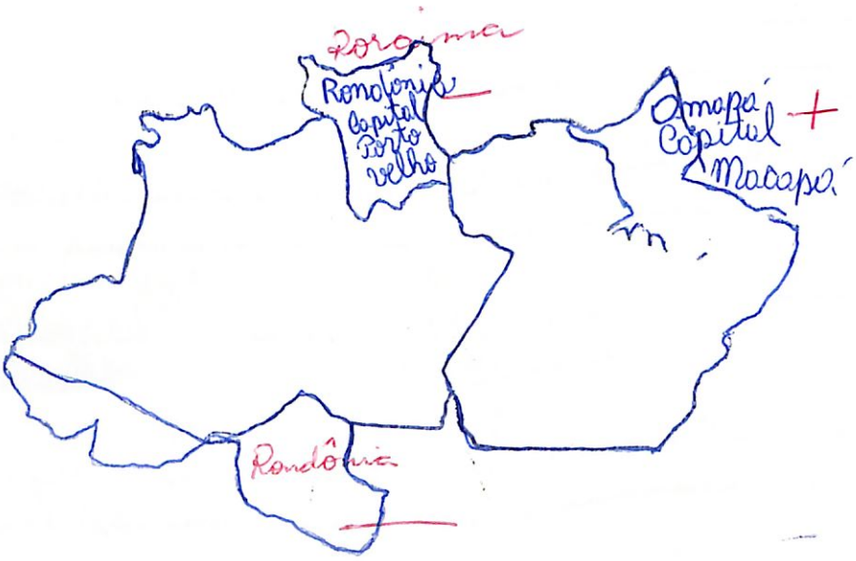

COLÉGIO BOM JESUS - ENSINO DE 1º E 2º GRAUS

Curitiba, 22 de novembro de 1979.

Aluno: José Roberto Coroleiro 4ª série turma 6º

Nota: 9,8 Professora: Rachel

TESTE DE EDUCÇÃO MORAL E CÍVICA

1.- Responda:

a).- Que são deveres?

R:- Deveres são as coisas que temos de fazer

b).- Que são direitos?

R:- Direitos são as ~~coles~~ coisas que podemos fazer, reclamar, e pedir

c).- Que é eleição?

R:- Eleição é um ato de ~~votar~~ escolher e reconhecer os candidatos eleitos

d).- Cite alguns direitos do homem:

O homem tem direito: ~~com~~ à liberdade, ~~com~~ à educação, ~~com~~ à vida, ~~com a alma~~ e ~~com~~ à segurança

e).- Diga o que é Imposto?

R:- Imposto é uma pequena contribuição em dinheiro e a qual está sujeito a todos os indivíduos nacionais ou estrangeiros no país

2.-

2.- Assinale (V) se for verdadeiro e (F) se for falso:

(V) O serviço militar é obrigatório a todos os brasileiros de 18 a 45 anos

(F) A pessoa sem registro pode matricular-se na escola.

(V) Votar quer dizer escolher.

(V) Pagar os impostos não é dever dos cidadãos.

(V) O homem tem direito à educação.

3.- Numere a 2ª coluna de acordo com a 1ª.

O homem tem deveres para:

(1) Com a Pátria

(2) Com a família

(3) Consigo mesmo

(4) ajudando seu semelhante, socorrendo, trabalhando e praticando boas ações.

(3) cuidando de sua alma, sua saúde e a limentação

(1) pagando impostos, possuir registro civil, prestando serviço militar e votando nas eleições

(4) Com a Sociedade

+(2) dando-lhe assistência material e moral , educação e amor.

4.- Como você é um bom cidadão brasileiro e já comemorou algumas datas cívicas cite duas datas do mês de outubro e novembro:

Outubro: dia: 12 de outubro dia da Criança +

dia: 12 de outubro dia de Nossa senhora Aparecida +

Novembro: dia: dia 5 de novembro dia da cultura. +

dia: dia 15 de novembro dia da Proclamação da República. +

***

COLÉGIO BOM JESUS - ENSINO DE 1º E 2º GRAUS

Curitiba, 22 de novembro de 1979.

Aluno: José Roberto Cordeiro 4ª série Turma: 6º

Nota: 9,0 Professora: Rachel

TESTE DE CIÊNCIAS

1.- Responda:

a).- Por onde os vermes penetram em nosso corpo?

R:- Os vermes penetram pela boca, pela pele e pelo nariz

b).- Que doenças são transmissíveis?

R:- As doenças que são transmissíveis são: sarampo tuberculose e Gripe

c).- De que maneira podemos contrair doenças por contágio direto?

R:- Nós podemos contrair pela gripe, pelo aperto de mão e tosse

d).- Quais são os acidentes mais comuns?

R:- Os acidentes são: subindo numa cadeira e alcançar mexendo numa máquina de petróleo (gás) e explode.

e).- Quais os cuidados que precisamos ter para podermos nadar?

R:- Os cuidados são: não podemos tomar banho depois do almoço, não tomar banho em água suja.

f).- Que é preciso para evitar as verminoses?

R:- Não comer alimentos que não é lavado não mexer em coisas sujas e depois ir almoçar e não tomar águas sujas, só filtrada e fervida.

2.- Marque com um X o que for certo:

(X) O verme suga o sangue das pessoas e elas se tornam fracas e anêmicas.

(X) O fumo não causa mal à nossa saúde.

(X) Os vermes vivem no intestino da pessoa.

(X) As vacinas nos protegem contra as doenças contagiosas.

(X) A pessoa atacada de insolação não sente dores de cabeça.

3.- Complete:

a).- Os ancilóstomos produzem a doença conhecida com o nome de Omarelão.

b).- Esquistossomose é uma doença causada por um caramujo que as pessoas adquirem quando nadam em rios e lagoas, ou entram em contato com a água contaminada.

c).- O verme formado de anéis ou gomos, chama-se Solitária

4.- Numere a 2ª coluna de acordo com a 1ª.

(1) ferimentos	(5) respiração artificial
(2) hemorragia	(3) água oxigenada
(3) asfixia	(1) compressas com água fria
(4) queimaduras	(4) soro antiofídico
(5) picadas	(2) pomadas

* * *

COLÉGIO BOM JESUS - ENSINO DE 1º E 2º GRAUS.

Curitiba, 20 de novembro de 1979.

Aluno: José Roberto Cordeiro 4ª série turma 6ª

Nota: 82,0 Professora: Rachel

TESTE DE INICIAÇÃO ÀS CIÊNCIAS: MATEMÁTICA

1.- Resolva:

a)- Calcule o perímetro de um terreno quadrado de 89,7m de lado.

Desenho

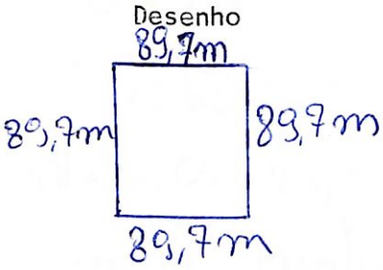

Fórmula

P□ 89,7m + 89,7m + 89,7m + 89,7m = 358,8

Cálculo

$$\begin{array}{r} 89{,}7\,m \\ +\ 89{,}7\,m \\ 89{,}7\,m \\ 89{,}7\,m \\ \hline 358{,}8 \end{array}$$

b)- Qual o perímetro de um terreno retangular de 9,4m de largura e 12,5m de comprimento?

Desenho

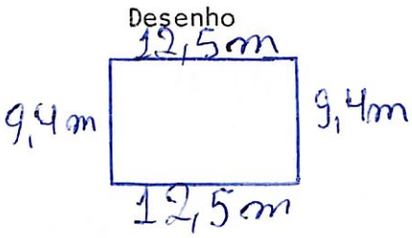

Fórmula

P□ 12,5m + 12,5m + 9,4m + 9,4m = 43,8m

Cálculo

$$\begin{array}{r} 12{,}5\,m \\ 12{,}5\,m \\ 9{,}4\,m \\ +\ 9{,}4\,m \\ \hline 43{,}8\,m \end{array}$$

c)- Qual o perímetro de um triângulo cujos lados medem 4,38cm, 3,2cm e 2,7cm?

Desenho

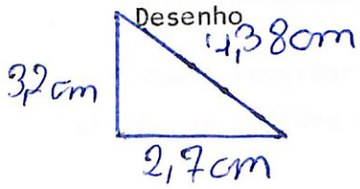

Fórmula

P△ 4,38cm + 3,2cm + 2,7cm = 10,28

Cálculo

$$\begin{array}{r} 4{,}38 \\ +\ 3{,}2 \\ 2{,}7 \\ \hline 10{,}28\,cm \end{array}$$

d) Marta pagou CR$ 120,00 por 6 kg de batata. Quanto pagaria se comparasse mais 8kg?

S.M.

Cr$ 120,00 ÷ 6 = Cr$ 20,00

Cr$ 20,00 X 8 = Cr$ 160,00

Cr$ 160,00 + Cr$ 120,00 = Cr$ 280,00

Cálculo

Cr$ 120,00 | 6
0000 20,00

$$\begin{array}{r} Cr\$\ 160{,}00 \\ +\ Cr\$\ 120{,}00 \\ \hline 280{,}00 \end{array}$$

$$\begin{array}{r} Cr\$\ 20{,}00 \\ \times\ 8 \\ \hline 160{,}00 \end{array}$$

Resposta: ~~Cr$~~ Pagaria Cr$ 280,00

e) Quanto custarão 4,50m de fazenda a CR$ 35,00 o metro?

S.M.

Cr$ 35,00 x 4,50 = Cr$ 157,50

Cálculo

Cr$ 35,00
x 4,50
17500
14000
157,50

Resposta: Custarão Cr$ 157,50

f)- Se o litro de certo líquido custa CR$ 130,00. Quanto custarão 12 dl e 18 cl ?

S.M- 12dl = 1,2 18cl = 0,18

Cr$ 130,00 x 1,2dl = Cr$ 156,00

Cr$ 130,00 x 0,18 = Cr$ 23,40

Cr$ 156,00 + 23,40 = 179,40

Cálculo

Cr$ 130,00
x 1,20
26000
13000
156,00

Cr$ 130,00
x 0,18
104000
13000
Cr$ 23,40

156,00
23,40
179,40

Resposta: Custarão 179,40

g)- Uma peça de fazenda media 260 metros, depois de molhada encolheu 0,6. Quanto ficou medindo?

S.M.

$\frac{6}{10}$ de 260 =

Cálculo

260 ÷ 10 = 2,60
2,60 x 10 = 26,00
26,00 − 260 = 23,40

260
x 10
26,00

26,00
−260
23,40

Resposta: Ficou medindo 23,40

2.- Vamos recordar o que aprendemos?

a)- Dê as medidas e os nomes dos seguintes ângulos:

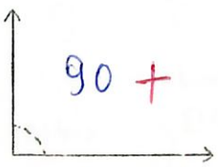



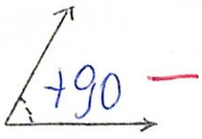

a- Reto

b- obtuso

c- agudo

b)- Reduza ao menor denominador comum:

$\frac{3}{6}, \frac{4}{2}, \frac{3}{7} = \frac{21}{42}, \frac{84}{42}, \frac{18}{42},$

6-2-7 | 2
3-1-7 | 3
1-1-7 | 7
1-1-1

2 x 3 x 7 = 42

c)- Converta no que se pede:

+ 2,12 dl a l = 0,212
+ 23 cl a hl = 0,0023
+ 143,12 dal a kl = 14312
— 2,5 dag a kg = 0,025
+ 120 mg a g = 0,120
+ 1,15 g a hg = 0,0115
— 12 m a cm = 1200
— 9,24 km a dm = 92400
— 8,341 dam a cm = 83410

d) Decomponha as seguintes medidas:

+ 67,28 hm = 67 hm, 2 dam e 8 m
+ 4,978 g = 4 g, 9 dag, 7 cg e 8 mg
+ 2,386 hl = 2 hl, 3 dal, 8 l e 6 dl
+ 6,94 km = 6 km, 9 hm e 4 dam
+ 37,8 hg = 37 hg e 8 dag
+ 632,74 dal = 632 dal, 7 l e 4 dl

e) Escreva como se lê:

+ - 18,38 m 18 metros, 3 decímetros e 8 centímetros 18 m e 38 cm
+ - 4,69 hl 4 hectolitros, 6 decalitros e 9 litros 4 hl e 69 l
+ - 7,19 dal 7 decalitros, 1 litro e 9 decilitros 7 dal e 19 dl

f) Arme e Efetue:

3,46 + 52 + 3,846 = 59,306
12,5 - 0,369 = 12,131
2,74 X 0,12 = 0,3288
48,9 ÷ 16,3 = 3

3,460
52,000
+3,846
59,306 +
1-1=0

48,9 | 16,3
000 3 +

12,500
-0,369
12,131 +

2,74
X 0,12
548
+ 274
0,3288 +

g) Arme, efetue e tire a prova real:

62214 X 47 = 2924058
2783160 ÷ 648 =

2783160 | 648
1911 4295
6156
3240
000 +

4295
X 648
34360
17180
25770
2783160

62214
X47
435498
248856 +
2924058 | 47
104 62214
200
065
188
08